DOSSIER RECUPERACIÓ 1a AVALUACIÓ

EL SEGLE XVIII: LA CRISI DE L'ANTIC RÈGIM

1. Completa el següent esquema amb les característiques principals de l'Antic Règim:

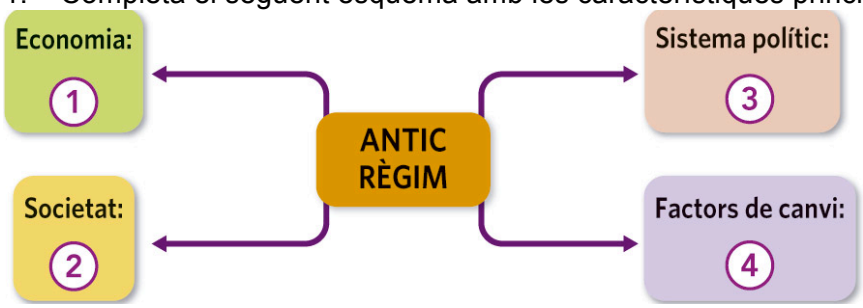

1:

2:

3:

4:

2. Per què al final del segle XVIII l'Antic Règim va entrar en crisi ? Quin paper va tenir la burgesia en aquest procès? Quins grups socials devien ser reticents a aquest procés de canvi ?

3. En què consistien la feina a domicili i les manufactures? Per què els productors volien saltar-se el control dels gremis?

4. Observa el mapa i explica el funcionament del sistema comercial anomenat comerç triangular.

5. Observa les fonts que tracten sobre el tràfic d'esclaus al segle XVIII i respon les qüestions següents:

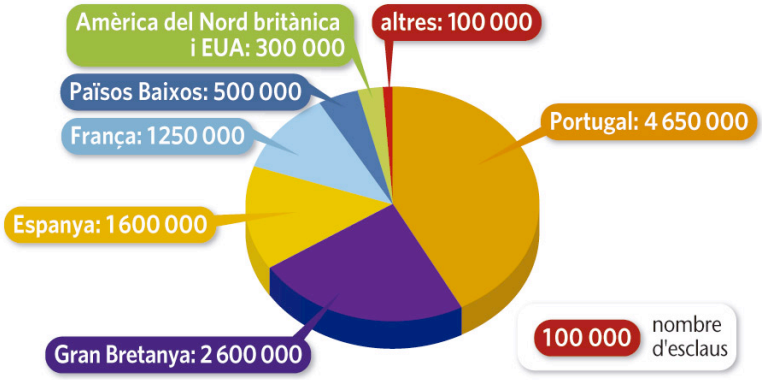

Destinació dels esclaus	Quantitat d'esclaus
Amèrica britànica i els EUA	500.000
Antilles britàniques	2.000.000
Antilles franceses	1.500.000
Antilles holandeses	500.000
Brasil	4.000.000
Imperi espanyol	2.500.000

a. Quins països van participar en el comerç d'esclaus? Quina posició hi ocupa Espanya?

b. Quants esclaus es calcula que van ser deportats a Amèrica durant el període de tràfic?

c. Quines feines feien els esclaus al lloc de destinació?

6. Llegeix atentament la següent frase: **"Tot per al poble, però sense el poble"** i respon les qüestions següents:

a) Quina relació hi ha entre la frase esmentada i el Despotisme il·lustrat?

b) Quin rei representa el despotisme il·lustat a Espanya?

c) Explica tot el que sàpigues sobre el moviment intel·lectual de la Il·lustració a nivell social i econòmic.

7. Explica la importància de la monarquia parlamentària a Anglaterra a la segona meitat del segle XVII

8. Observa l'esquema del **liberalisme polític** i explica de manera detallada en què consisteix. Després defineix: **divisió de poders**, **constitució i sobirania nacional**.

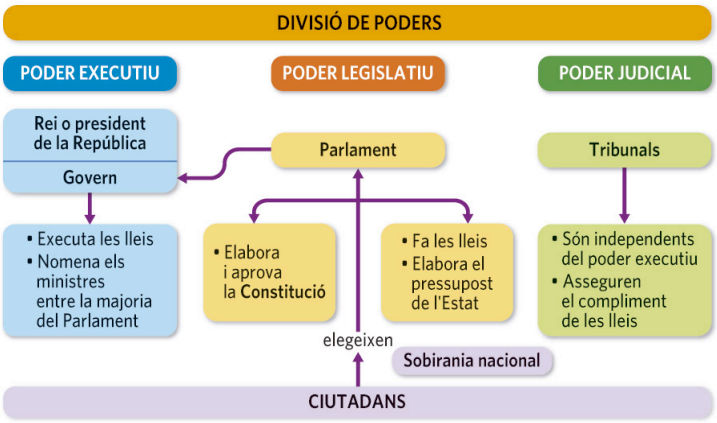

9. Quines van ser les transformacions que va conèixer l'economia catalana al segle XVIII? Quin paper va tenir-hi la vinya i l'aiguardent?

10. Redacta un text sobre la **Guerra de Sucessió**. Fes constar:

- Origen de la Guerra de Successió
- Bàndols enfrontats
- Fet que portà al desenllaç del conflicte.
- Tractat d'Utrecht.
- Fi del conflicte a Catalunya
- Conseqüències per a Catalunya

11. Preguntes tipus test. Assenyala la resposta correcte.

1.

a)La Il.lustració va ser un moviment intel.lectual que es va desenvolupar a Europa durant el segle XIX?
b)La Il.lustració va ser un moviment intel.lectual que es va desenvolupar al segle XVIII.
c) La Il.lustració va ser un moviment intel.lectual que afavoria sobretot el manteniment del règim feudal.

2.

a)Els Il.lustrats creien en la raó per entendre el mòn i rebutjaven el teocentrisme religiós.
b)Els Il.lustrats creien en la raó per entendre el mòn i rebutjaven el deisme.
c)Els Il.lustrats creien en la raó com a forma d'entendre només els mecanismes socials i naturals.

3.

a)En l'àmbit econòmic els Il.lustrats defensaven posicions mercantilistes.
b)En l'àmbit econòmic els Il.lustrats defensaven la intervenció i la planificació econòmica de l'Estat.
c)En l'àmbit econòmic els Il.lustrats defensaven la fisiocràcia i el mercantilisme.

4.

a)En l'àmbit social els Il.lustrats defensaven la mobilitat social,la igualtat d'orígen i el mèrit segons la vàlua de cada persona.
b)En l'àmbit social els Il.lustrats defensaven el prestigi de les herències i el bon nom dels avantpassats.
c)En l'àmbit social els Il.lustrats defensaven l'igualitarisme social tot acabant amb les diferències entre rics i pobres.

5.

a)En l'àmbit polític els Il.lustrats defensaven la separació de poders,la igualtat davant la llei i el contracte social en forma de Constitució.
b)En l'àmbit polític els Il.lustrats defensaven la concentració de poders,una llei segons els ingressos i una Monarquia feblement limitada.
c)En l'àmbit polític els Il.lustrats defensaven un sistema fiscal regresiu,un Parlament limitat i que la sobirania nacional residís en el Monarca.

L'ÈPOCA DE LES REVOLUCIONS LIBERALS (1799-1871)
ESPANYA I CATALUNYA AL SEGLE XIX: LA CONSTRUCCIÓ D'UN RÈGIM LIBERAL

1. L'impacte de les idees de la Il·lustració i la revolució americana, a més de la crisi social i econòmica viscuda a França, va propiciar l'esclat de la Revolució Francesa. La convocatòria dels Estats Generals va tenir importància. Observa aquest quadre sobre el vot als Estats Generals i respon les preguntes següents:

	SISTEMA TRADICIONAL		DEMANDES DEL TERCER ESTAT		
Grups	**Diputats**	**Vot per grup**	**Diputats**	**Vot per persona***	
Clero	291	1	291	Alt clergat Baix clergat	46 245
Noblesa	270	1	270	Absolutistes Liberals	220 50
Tercer Estat	289	1	578	Tercer Estat	578

*No va ser acceptat.

a) Explica quin nou nombre de diputats i sistema de votació va exigir el Tercer Estat en els Estats Generals convocats per Lluís XVI el 1789.

b) Justifica per què aquestes demandes eren tan importants ? Com van respondre els privilegiats ?

c) Raona la importància que va tenir aquesta qüestió en l'inici de la Revolució Francesa.

2. Comenta la imatge.

a) Descriu la escena i identifica els tres personatges. Què representa l'edifici dibuixat al fons?

b) Què simbolitzen els tres personatges?Analitza la seva actitud.

c)Explica quin missatge ha volgut transmetre l'autor d'aquest gravat i relaciona'l amb el seu context històric.

3. Completa el quadre sobre la Revolució Francesa

Revolució Francesa	**Fase 1**	**Fase 2**	**Fase 3**
Període			
Grup dirigent			
Tasca de govern			
Problemes			
Causes de la caiguda			

4. Quins territoris van ser annexats per Napoleó a la França imperial. Què va significar el govern de Napoleó per a França ? I per al conjunt d'Europa?

5. Comenta l'esquema següent:

Justifica quines són les principals aportacions de la Revolució Francesa als sistemes democràtics que regeixen actualment als països occidentals.

6. Posa una creu a l'opció correcta:

1 a) La monarquia constitucional va començar al 1789 i va acabar al 1790
b) La monarquia constitucional va començar al 1780 i va acabar al 1792
c) La monarquia constitucional va començar al 1789 i va acabar al 1792
d) cap de les anteriors

2 a) La monarquia constitucional tenia el suport de la burgesia conservadora
b) La monarquia constitucional tenia el suport de les classes populars
c) La monarquia constitucional tenia el suport de la burgesia radical
d) cap de les anteriors

3 a) La república social va començar al 1792 i va acabar al 1790
b) La república social va començar al 1792 i va acabar al 1793
c) La república social va començar al 1792 i va acabar al 1794
d) cap de les anteriors

4 a) La república social va ser impulsada per la burgesia conservadora
b) La república social va ser impulsada per la burgesia radical
c) La república social va ser impulsada per la burgesia radical i el poble
d) cap de les anteriors

5 a) La república conservadora va començar al 1792 i va acabar al 1799
b) La república conservadora va començar al 1794 i va acabar al 1799
c) La república conservadora va començar al 1793 i va acabar al 1790
d) cap de les anteriors

6 a) La república conservadora va suposar el retorn al poder de la burgesia conservadora
b) La república conservadora va suposar el retorn al poder de la burgesia radical
c) La república conservadora va suposar el retorn al poder de les classes populars
d) cap de les anteriors

7 a) La primera Constitució es va promulgar al 1790
b) La primera Constitució es va promulgar al 1792
c) La primera Constitució es va promulgar al 1793
d) cap de les anteriors

8 a) L'11 d'agost del 1792, els sans-culottes van assaltar el palau reial de les Tulleries
b) L'11 d'agost del 1792, els jacobins van assaltar el palau reial de les Tulleries
c) El 10 d'agost del 1792, els sans-culottes van assaltar el palau reial de les Tulleries
d) El 10 d'agost del 1792, els girondins van assaltar el palau reial de les Tulleries

9 a) Bastilla era el nom de la primera Constitució
b) Bastilla era el nom del palau del rei
c) Bastilla era el nom d'un revolucionari francès
d) Bastilla era el nom d'una fortalesa

10 a) El 1789, la Assemblea Nacional va convertir França en una dictadura
b) El 1789, la Assemblea Nacional va convertir França en una república
c) El 1789, la Assemblea Nacional va convertir França en una monarquia parlamentària
d) cap de les anteriors

7. Després de la derrota de Napoleó, Europa es va situar entre l'absolutisme i el liberalisme (1815-1848). A més, al llarg del segle XIX a Europa va sorgir nous estats A partir de l'observació del mapa d'Europa de 1815, contesta les següents qüestions:

a) Quines eren les potències que va formar part del Congrés de Viena?

b) Quin era el principal objectiu del Congrés de Viena?

c) Quins van ser els estats fundadors de la Santa Aliança ?

d) Explica el procés d'unificació d'Itàlia i el procés d'unificació d'Alemanya.

5. Redacta un text que expliqui com es va implantar el liberalisme a Espanya al segle XIX. Cal fer constar el següent:
   - la Guerra del Francès (1808-1814) i la Constitució de Cadis (1812),
   - el Regnat de Ferran VII (1814-1833),
   - la Primera Guerra Carlina: liberals i absolutistes (1833-1839),
   - el Regnat d'Isabel II i l'Estat liberal (1833-1868),
   - el Sexenni Democràtic (1868-1874),
   - la Restauració borbònica (1874-1902)

L'ORIGEN DE LA INDUSTRIALITZACIÓ
INDUSTRIALITZACIÓ I CANVI SOCIAL A ESPANYA I CATALUNYA AL SEGLE XIX

1. La industrialització va representar el pas de l'economia agrària a una altra dominada per la indústria en la qual la producció de béns es feia de manera mecanitzada. A continuació respon les següents qüestions:

a) Indica amb quin any es correspon les innovacions tecnològiques esmentades i assenyala amb quina activitat econòmica estan relacionades:
Alt forn de Darby - Convertidor de Bessemer- Locomotora de Stephenson –
Llançadora volant de Kay - Màquina de vapor Watt - Teler mecànic de Cartwright

Anys	**INNOVACIONS**	**ACTIVITATS ECONÒMIQUES**
1709		
1733		
1769		
1785		
1829		
1856		

b) Explica les anomenades "revolucions paral·leles" que van propiciar la Revolució Industrial.

c) Quin va ser el primer sector productiu que va encapçalar la industrialització? Quina matèria primera emprava?

d) Quins canvis hi va haver als mitjans de transport? Quines conseqüències en van derivar?

Aquest cartell de propaganda de 1889 és una mostra del procés de mecanització de les tasques agrícoles durant els segles XVIII i XIX.

En la il·lustració podem observar una segadora, una sembradora mecànica i una trilladora. Els nous sistemes de llaurar i sembrar permetien remoure la terra amb facilitat i en profunditat i també cobrir les llavors amb terra per protegir-les del vent i dels animals.

Alhora que apareixia nova maquinària agrícola, també es van introduir canvis importants en els sistemes de cultiu, com el sistema Norfolk, o noves formes d'organitzar la propietat agrària.

2. En relació amb les transformacions de l'agricultura esdevinguda a la segona meitat del segle XVIII a Anglaterra i estesa per Europa al segle XIX, i que en el cas d'Espanya arribà amb la reforma agrària liberal. Respon les següents qüestions.

a) La industrialització de l'àmbit rural va suposar importants conseqüències per a l'activitat agrícola. Assenyala l'afirmació correcta:

A Va augmentar la producció agrícola, però no la productivitat.

B Va augmentar la producció agrícola, però va minvar la producció.

C Va augmentar la producció agrícola, la qual cosa va permetre mantenir el creixement demogràfic.

D Van augmentar la producció i la productivitat, però això no es va reflectir en una dieta més variada.

b) Durant els segles XVIII i XIX es van produir nombroses innovacions en l'agricultura. Defineix els conceptes següents relacionats amb les innovacions en el sistema de cultiu i la propietat:

- Enclosure Acts:

- Sistema Norfolk:

- Desamortització:

- Desvinculació:

3. Amb el desenvolupament del capitalisme es va consolidar una nova societat que presentava nombroses diferències entre la burgesia i el proletariat.

Font 1



S. Giraud: Interior d'un saló burgès de París (1889)

Font 2

Interior d'una casa obrera a Berlín (1907)

a) Emplena aquesta taula amb les dades identificatives de cada font:

	Tipus de font	Data	Informació bàsica que aporta
Font 1			
Font 2			

b) Explica l'estil i les condicions de vida de les dues classes socials de la nova societat de classes.

4. A principis del segle XIX els obrers van començar a organitzar-se per millorar les seves condicions de vida i de treball, a més al llarg del segle XIX van apareixer ideologies que van denunciar les desigualtats socials del capitalisme.

a) Completa el quadre comparatiu entre marxisme i anarquisme amb els conceptes seguents:

- creació de partits obrers
- societat sense classes
- eliminació de la propietat privada
- lluita a través de sindicats
- llibertat individual
- poder polític per al proletariat
- rebuig a l'autoritat

elements propis del marxisme	elements propis de l'anarquisme	elements comuns entre marxisme i anarquisme

b) Imagina't que ets un treballador d'una fàbrica tèxtil i que formes part d'un dels primers sindicats obrers. Elabora un escrit en el qual expliquis les teves condicions de treball i les reivindicacions que presentaries al propietaris de la fàbrica.
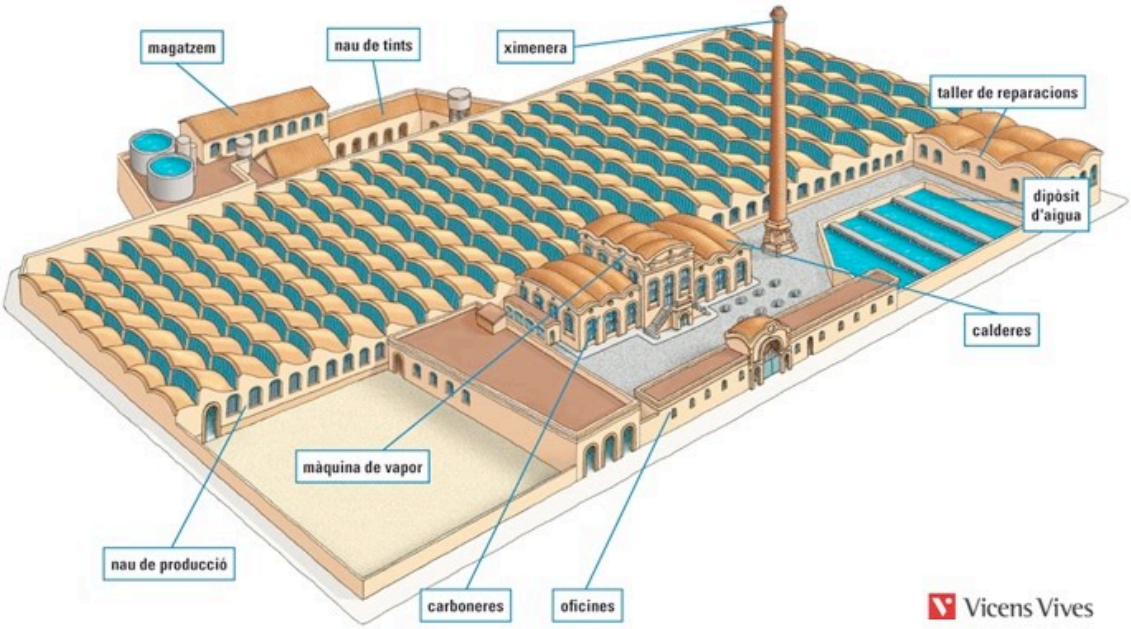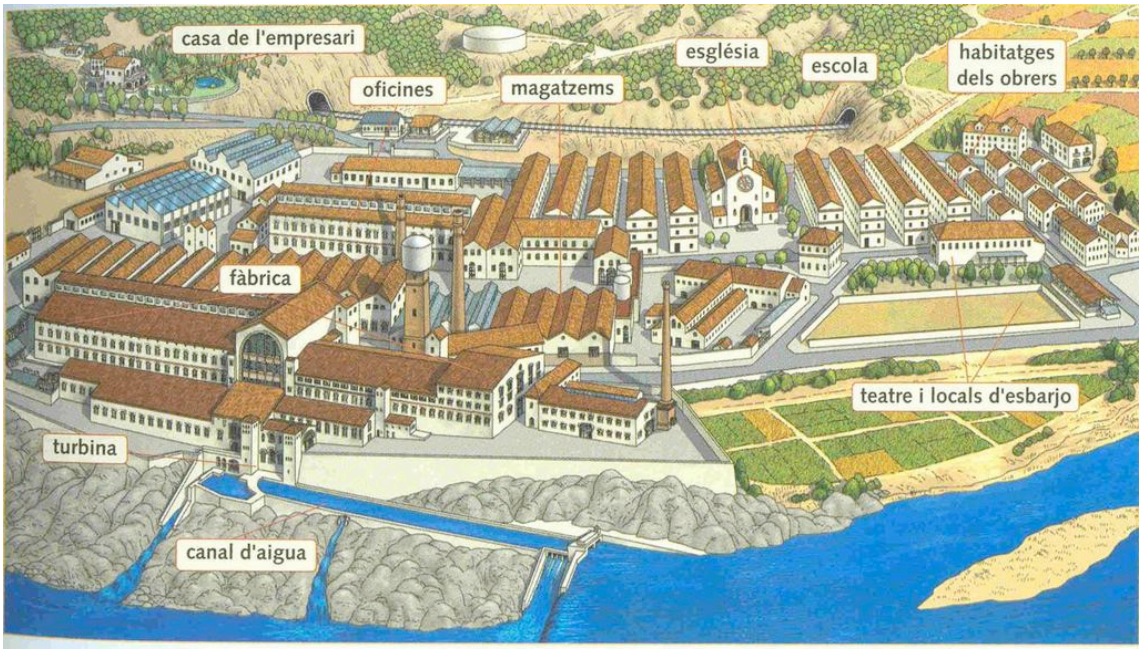
5. Observa els dibuixos del vapor i la colònia tèxtil. Descriu de quines parts constaven i què diferenciava l'un de l'altra.